Birsel Öğretmen



2. SINIF

MATEMATİK
1. DÖNEM 3. HAFTA
Nesnelerin Geometrisi

Birsel Öğretmen
İle MATEMATİK
ÇOK KOLAY





@birselogretmen

@birselogretmen

www birselogretmen.com.tr

1. DÖNEM 3. HAFTA
NESNELERİN GEOMETRİSİ

Birsel Öğretmen

Soru 1) Aşağıdaki ev modeli kare, dikdörtgen ve üçgenlerden oluşturulmuştur.

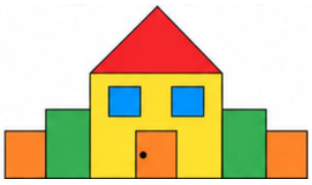

Bu modelde kullanılan üçgen sayısı, kare sayısından kaç eksiktir?

A) 1 B) 2 C) 3

Soru 2) Aşağıdaki modellerden hangisinde yalnızca üçgen ve kareler kullanılmıştır?

A) 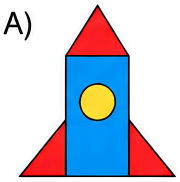

B) 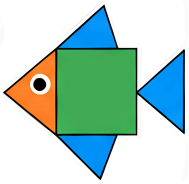

C) 

Soru 3) Aslıgül aşağıdaki geometrik şekilleri kullanarak bir model oluşturacaktır.



Aslıgül modelinde bütün şekilleri birer kez kullanırsa toplam kaç geometrik şekil kullanmış olur?

A) 4 B) 5 C) 6

Soru 4) Yan taraftaki robot modeli geometrik şekiller kullanılarak oluşturulmuştur.



Robotun başı ve gövdesi hangi geometrik şekillere benzemektedir?

A) Kare - Dikdörtgen B) Üçgen - Kare C) Daire - Üçgen

Soru 5) Yunus Emre iki üçgeni aşağıdaki gibi yan yana getiriyor.

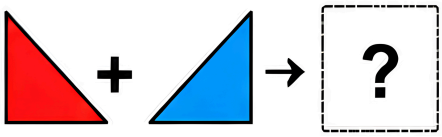

Bu iki üçgen birleştirildiğinde aşağıdaki şekillerden hangisi oluşturulabilir?

A)  B)  C) 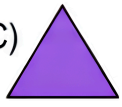

Soru 6) Yan taraftaki modelde bazı geometrik şekiller kullanılmıştır.



Bu modelde aşağıdaki geometrik şekillerden hangisi <u>kullanılmamıştır?</u>

A) Kare B) Daire C) Dikdörtgen

Soru 7) Dilara aşağıdaki şekilleri kullanarak kendi modelini oluşturacaktır.



Bu şekillerden en az üç tanesini kullanarak bir model çiziniz.